تم رفع الملف
عبر

موقع الكتاب 24

للعودة الى الموقع اكتب في بحث جوجل

موقع الكتاب 24



alktab24.online



دولة ليبيا موقع الكتاب٢٤ مدرسة:	اختبار جغرافيا الوطن العربي الصف الثامن مناهج ليبيا	المادة:	الجغرافيا
		الاختبار:	
		الصف:	الثامن
		الزمن:	ساعتان
		الفترة:	

اسم الطالب		
		٦٧

السؤال ١: اختر الإجابة الصحيحة:	
	١٠

١	في أي قارات يقع الوطن العربي؟			
	أ) آسيا و أفريقيا	ب) أوروبا و أفريقيا	ج) آسيا وأوروبا	د) أمريكا وآسيا
٢	ما المسطح المائي الذي يصل بين البحر المتوسط والخليج العربي عبر قناة السويس؟			
	أ) البحر الأحمر	ب) المحيط الأطلسي	ج) المحيط الهندي	د) بحر العرب
٣	أي مما يأتي من المضائق التي يتحكم بها الوطن العربي؟			
	أ) مضيق جبل طارق	ب) مضيق ملقا	ج) مضيق بيرنغ	د) مضيق هرمز فقط خارج الوطن العربي
٤	ما السهل الذي يجري فيه نهرا دجلة والفرات؟			
	أ) السهل الرسوبي في العراق	ب) سهل المغرب العربي	ج) سهل السودان الساحلي	د) سهل شبه الجزيرة العربية
٥	ما النهران اللذان يلتقيان في منطقة شط العرب؟			
	أ) دجلة والفرات	ب) النيل والفرات	ج) النيل ودجلة	د) جوبا وشبيلي
٦	أي مناخ يسود على طول السواحل الشمالية المطلة على البحر المتوسط؟			
	أ) مناخ البحر المتوسط	ب) المناخ الصحراوي	ج) المناخ الموسمي	د) المناخ القطبي
٧	متى تهب الرياح المحلية في الوطن العربي غالبا؟			
	أ) في أواخر الربيع وأوائل الصيف	ب) في منتصف الشتاء فقط	ج) طوال السنة دون انقطاع	د) في الخريف فقط
٨	أين تنمو أشجار النخيل في الوطن العربي؟			
	أ) في مناطق المناخ الصحراوي	ب) في المرتفعات الباردة فقط	ج) في الغابات المعتدلة فقط	د) على السواحل القطبية
٩	ما المصدر الأساسي للطاقة الأحفورية في الوطن العربي؟			
	أ) النفط	ب) الخشب	ج) الطاقة المائية	د) الفحم النباتي
١٠	أين تتركز صناعة الحديد والصلب في الوطن العربي بحسب المحتوى؟			

موقع الكتاب 24

	أ) شمال وادي النيل وشمال المغرب العربي	ب) في جميع الصحارى	ج) في سواحل الخليج فقط	د) في المرتفعات الجبلية وحدها

السؤال ٢: ضع علامة (□) أو (□) أمام العبارات التالية:	١٠

#	العبارة	الإجابة
١	يمتد الوطن العربي بين قارتي آسيا و أفريقيا.	( )
٢	يقع الوطن العربي في قلب العالم القديم ويتوسط قارتي آسيا و أفريقيا وأوروبا.	( )
٣	تقتصر حدود الوطن العربي البحرية على البحر المتوسط وحده.	( )
٤	تتكون هضبة أفريقيا الشمالية من سهول منبسطة بالكامل.	( )
٥	تنحدر جبال الشام بمحاذاة الساحل الشرقي للبحر المتوسط.	( )
٦	يخترق نهرا دجلة والفرات الأراضي العر اقية من الشمال إلى الجنوب.	( )
٧	تسقط الأمطار على شمال الوطن العربي بصورة صيفية منتظمة.	( )
٨	تؤدي الرياح المحلية إلى إثارة الأتربة والغبار.	( )
٩	تنمو غابات شبه الاستوائية في جنوب موريتانيا وجنوب السودان وجنوب الصومال.	( )
١٠	النفط مادة خام تدخل في صناعات عديدة.	( )

السؤال ٣: زاوج بين العمودين: صل العمود (أ) بما يناسبه من العمود (ب):	٣

#	العمود (أ)		العمود (ب)
١	مضيق جبل طارق	( )	يفصل بين أفريقيا وأوروبا
٢	قناة السويس	( )	يصل البحر الأحمر بالبحر المتوسط
٣	مضيق باب المندب	( )	يربط البحر الأحمر بخليج عدن

السؤال ٤: زاوج بين العمودين: صل العمود (أ) بما يناسبه من العمود (ب):	٣

#	العمود (أ)		العمود (ب)
١	نهر النيل	( )	منطقة القرن الأفريقي
٢	نهرا دجلة والفرات	( )	العراق
٣	نهرا جوبا وشبيلي	( )	السودان ومصر

موقع الكتاب 24

السؤال ٥: زاوج بين العمودين: صل العمود (أ) بما يناسبه من العمود (ب):	
	٣

#	العمود (أ)		العمود (ب)
١	المناخ الصحراوي	( )	تنتشر فيه الواحات والأودية الجافة
٢	مناخ البحر المتوسط	( )	يسود السواحل الشمالية
٣	الرياح المحلية	( )	تهب في أواخر الربيع وأوائل الصيف

السؤال ٦: زاوج بين العمودين: صل العمود (أ) بما يناسبه من العمود (ب):	
	٣

#	العمود (أ)		العمود (ب)
١	النفط	( )	تعليب الخضر والفواكه
٢	الإنتاج الحيواني	( )	اللحوم والألبان والأسماك
٣	الصناعات الغذائية	( )	مصدر للطاقة الأحفورية

السؤال ٧: أكمل الفراغات التالية:	
	١٠

١	١. يمتد الوطن العربي من المحيط الأطلسي غربا إلى الخليج العربي وبحر..... شرقا.
٢	٢. يبلغ امتداد مساحة الوطن العربي حوالي ..... مليون كيلومتر مربع تقريبا.
٣	٣. من المضائق المهمة التي يتحكم بها الوطن العربي مضيق باب المندب ومضيق ..... .
٤	٤. يلتقي نهرا دجلة والفرات في منطقة ..... .
٥	٥. تقع جبال أطلس في شمال ..... .
٦	٦. من الأنهار التي تجري في منطقة القرن الأفريقي نهرا جوبا و..... .
٧	٧. تتميز السواحل الشمالية للوطن العربي بمناخ ..... .
٨	٨. تتركز أشجار الكروم في مناطق مناخ البحر..... .
٩	٩. تنتشر الواحات والأودية الجافة في مناطق المناخ ..... .
١٠	١٠. توفر جلود الحيوانات المادة الخام اللازمة للصناعات ..... .

السؤال ٨: أجب عن الأسئلة التالية:	
	٢٥

موقع الكتابة 24

١	١. اذكر خصائص الموقع الجغرافي للوطن العربي وأهميته الاستراتيجية. _____ _____ _____ _____ _____
٢	٢. قارن بين هضبة أفريقيا الشمالية وهضبة شبه الجزيرة العربية من حيث المظاهر السطحية. _____ _____ _____ _____ _____
٣	٣. وضح خصائص مناخ البحر المتوسط في الوطن العربي وموقع انتشاره. _____ _____ _____ _____ _____
٤	٤. تحدث عن أنواع الغطاء النباتي الطبيعي في الوطن العربي وخصائصه. _____ _____ _____ _____ _____
٥	٥. اشرح أهمية الإنتاج الحيواني والصناعات الغذائية في اقتصاد الوطن العربي. _____ _____ _____ _____ _____

انتهت الأسئلة ... بالتوفيق

موقع الكتاب 24

تم رفع الملف
عبر

موقع الكتاب 24

للعودة الى الموقع اكتب في بحث جوجل

موقع الكتاب 24



alktab24.online



	إجابة اختبار جغرافيا الوطن العربي الصف الثامن مناهج ليبيا	المادة:	الجغرافيا
		الاختبار:	اختبار جغرافيا الوطن العربي الصف الثامن مناهج ليبيا
		الصف:	الثامن
		الزمن:	ساعتان
		الفترة:	

اسم الطالب		
		٦٧

السؤال ١: اختر الإجابة الصحيحة:	
	١٠

١	في أي قارات يقع الوطن العربي؟			
	أ) آسيا و أفريقيا	ب) أوروبا و أفريقيا	ج) آسيا وأوروبا	د) أمريكا وآسيا
٢	ما المسطح المائي الذي يصل بين البحر المتوسط والخليج العربي عبر قناة السويس؟			
	أ) البحر الأحمر	ب) المحيط الأطلسي	ج) المحيط الهندي	د) بحر العرب
٣	أي مما يأتي من المضائق التي يتحكم بها الوطن العربي؟			
	أ) مضيق جبل طارق	ب) مضيق ملقا	ج) مضيق بيرنغ	د) مضيق هرمز فقط خارج الوطن العربي
٤	ما السهل الذي يجري فيه نهرا دجلة والفرات؟			
	أ) السهل الرسوبي في العراق	ب) سهل المغرب العربي	ج) سهل السودان الساحلي	د) سهل شبه الجزيرة العربية
٥	ما النهران اللذان يلتقيان في منطقة شط العرب؟			
	أ) دجلة والفرات	ب) النيل والفرات	ج) النيل ودجلة	د) جوبا وشبيلي
٦	أي مناخ يسود على طول السواحل الشمالية المطلة على البحر المتوسط؟			
	أ) مناخ البحر المتوسط	ب) المناخ الصحراوي	ج) المناخ الموسمي	د) المناخ القطبي
٧	متى تهب الرياح المحلية في الوطن العربي غالبا؟			
	أ) في أواخر الربيع وأوائل الصيف	ب) في منتصف الشتاء فقط	ج) طوال السنة دون انقطاع	د) في الخريف فقط
٨	أين تنمو أشجار النخيل في الوطن العربي؟			
	أ) في مناطق المناخ الصحراوي	ب) في المرتفعات الباردة فقط	ج) في الغابات المعتدلة فقط	د) على السواحل القطبية
٩	ما المصدر الأساسي للطاقة الأحفورية في الوطن العربي؟			
	أ) النفط	ب) الخشب	ج) الطاقة المائية	د) الفحم النباتي
١٠	أين تتركز صناعة الحديد والصلب في الوطن العربي بحسب المحتوى؟			

موقع الكتاب 24

	أ) شمال وادي النيل وشمال المغرب العربي	ب) في جميع الصحارى	ج) في سواحل الخليج فقط	د) في المرتفعات الجبلية وحدها

السؤال ٢: ضع علامة (□) أو (□) أمام العبارات التالية:	١٠

#	العبارة	الإجابة
١	يمتد الوطن العربي بين قارتي آسيا و أفريقيا.	□
٢	يقع الوطن العربي في قلب العالم القديم ويتوسط قارتي آسيا و أفريقيا وأوروبا.	□
٣	تقتصر حدود الوطن العربي البحرية على البحر المتوسط وحده.	□
٤	تتكون هضبة أفريقيا الشمالية من سهول منبسطة بالكامل.	□
٥	تنحدر جبال الشام بمحاذاة الساحل الشرقي للبحر المتوسط.	□
٦	يخترق نهرا دجلة والفرات الأراضي العر اقية من الشمال إلى الجنوب.	□
٧	تسقط الأمطار على شمال الوطن العربي بصورة صيفية منتظمة.	□
٨	تؤدي الرياح المحلية إلى إثارة الأتربة والغبار.	□
٩	تنمو غابات شبه الاستو ائية في جنوب موريتانيا وجنوب السودان وجنوب الصومال.	□
١٠	النفط مادة خام تدخل في صناعات عديدة.	□

السؤال ٣: زاوج بين العمودين: صل العمود (أ) بما يناسبه من العمود (ب):	٣

#	العمود (أ)		العمود (ب)
١	مضيق جبل طارق	( )	يفصل بين أفريقيا وأوروبا
٢	قناة السويس	( )	يصل البحر الأحمر بالبحر المتوسط
٣	مضيق باب المندب	( )	يربط البحر الأحمر بخليج عدن
الإجابة: 1 → 3،3 → 2،2 → 1			

السؤال ٤: زاوج بين العمودين: صل العمود (أ) بما يناسبه من العمود (ب):	٣

#	العمود (أ)		العمود (ب)
١	نهر النيل	( )	منطقة القرن الأفريقي
٢	نهرا دجلة والفرات	( )	العراق
٣	نهرا جوبا وشبيلي	( )	السودان ومصر
الإجابة: 3 → 1،3 → 2،2 → 1			

موقع الكتاب 24

السؤال ٥: زاوج بين العمودين: صل العمود (أ) بما يناسبه من العمود (ب):	٣

#	العمود (أ)		العمود (ب)
١	المناخ الصحراوي	( )	تنتشر فيه الواحات والأودية الجافة
٢	مناخ البحر المتوسط	( )	يسود السواحل الشمالية
٣	الرياح المحلية	( )	تهب في أواخر الربيع وأوائل الصيف

الإجابة: 1 → 3،3 → 2،2 → 1

السؤال ٦: زاوج بين العمودين: صل العمود (أ) بما يناسبه من العمود (ب):	٣

#	العمود (أ)		العمود (ب)
١	النفط	( )	تعليب الخضر والفواكه
٢	الإنتاج الحيواني	( )	اللحوم والألبان والأسماك
٣	الصناعات الغذائية	( )	مصدر للطاقة الأحفورية

الإجابة: 3 → 1،3 → 2،2 → 1

السؤال ٧: أكمل الفراغات التالية:	١٠

١	١. يمتد الوطن العربي من المحيط الأطلسي غربا إلى الخليج العربي وبحر..... شرقا. الإجابة: عرب
٢	٢. يبلغ امتداد مساحة الوطن العربي حوالي ..... مليون كيلومتر مربع تقريبا. الإجابة: ١٣
٣	٣. من المضائق المهمة التي يتحكم بها الوطن العربي مضيق باب المندب ومضيق ..... .
٤	٤. يلتقي نهرا دجلة والفرات في منطقة ..... . الإجابة: شط العرب
٥	٥. تقع جبال أطلس في شمال ..... . الإجابة: أفريقيا
٦	٦. من الأنهار التي تجري في منطقة القرن الأفريقي نهرا جوبا و..... .
٧	٧. تتميز السواحل الشمالية للوطن العربي بمناخ ..... . الإجابة: البحر المتوسط

موقع الكتاب 24

٨	٨. تتركز أشجار الكروم في مناطق مناخ البحر..... . الإجابة: المتوسط
٩	٩. تنتشر الواحات والأودية الجافة في مناطق المناخ ..... . الإجابة: الصحراوي
١٠	١٠. توفر جلود الحيوانات المادة الخام اللازمة للصناعات ..... . الإجابة: الجلدية

السؤال ٨: أجب عن الأسئلة التالية:	
	٢٥

١	١. اذكر خصائص الموقع الجغرافي للوطن العربي وأهميته الاستراتيجية. _____ _____ _____ _____ _____ الإجابة: يقع الوطن العربي في قلب العالم القديم، ويتوسط قارات آسيا و أفريقيا وأوروبا. ويشرف على بحار ومحيطات مهمة، منها البحر المتوسط والبحر الأحمر والخليج العربي والمحيط الأطلسي والمحيط الهندي. ويتحكم في مضائق وممرات بحرية مهمة مثل جبل طارق وباب المندب ومضيق هرمز وقناة السويس. وتبرز أهميته الاستراتيجية في السلم والحرب والأزمات الدولية، كما تسهم أهميته في مرور التجارة واكتشاف النفط وخطوط الطيران.
٢	٢. قارن بين هضبة أفريقيا الشمالية وهضبة شبه الجزيرة العربية من حيث المظاهر السطحية. _____ _____ _____ _____ _____ الإجابة: تتدرج هضبة أفريقيا الشمالية من الجنوب إلى الشمال، وتظهر فيها السهول والمرتفعات والحافات البارزة، كما تضم أحواضا منخفضة وواحات وأودية جافة. أما هضبة شبه الجزيرة العربية فتوجد فيها كتل جبلية قديمة، وتتخللها أحواض منخفضة وصحارى، وتضم واحات وأودية جافة. وتختلف الهضبتان في مظاهرهما وتوزيع المرتفعات والسهول والأحواض.
٣	٣. وضح خصائص مناخ البحر المتوسط في الوطن العربي وموقع انتشاره. _____ _____ _____ _____ _____ الإجابة: ينتشر مناخ البحر المتوسط على طول السواحل الشمالية المطلة على البحر المتوسط، وفي بعض المرتفعات. يتميز بالحرارة والجفاف صيفا، وبالدفء والمطر شتاء. وتتفاوت خصائصه بين المناطق بحسب الموقع والارتفاع، وتساعد أمطاره واعتدال حرارته على نمو بعض المحاصيل والأشجار.

موقع الكتاب 24

٤	٤. تحدث عن أنواع الغطاء النباتي الطبيعي في الوطن العربي وخصائصه. _____ _____ _____ _____ _____ الإجابة: يتنوع الغطاء النباتي الطبيعي في الوطن العربي تبعا لاختلاف المناخ. تنتشر الغابات شبه الاستوائية في المناطق الجنوبية، وتتميز بحرارتها الشديدة وغزارة المطر. وتنمو الغابات المعتدلة في المرتفعات الشمالية، وتضم أشجارا مثل البلوط والصنوبر والعرعر والأرز. كما تنتشر نباتات المستنقعات على ضفاف الأنهار، والنباتات الصحراوية في الواحات والسهول الجافة، وهي نباتات قادرة على التكيف مع الجفاف.
٥	٥. اشرح أهمية الإنتاج الحيواني والصناعات الغذائية في اقتصاد الوطن العربي. _____ _____ _____ _____ _____ الإجابة: للإنتاج الحيواني دور كبير في الاقتصاد الوطني، إذ يوفر الغذاء للسكان مثل اللحوم والحليب الطازج والجبن والزبدة والسمن، كما يوفر الجلود والصوف والوبر مواد خام للصناعات الجلدية والمنسوجات. وتعتمد الصناعات الغذائية على المنتجات الزراعية والحيوانية، وتشمل تعليب الخضر والفواكه وصناعة الألبان واللحوم والأسماك. وتسهم هذه الأنشطة في توفير المنتجات وفرص العمل ودعم النشاط الاقتصادي.

انتهت الأسئلة ... بالتوفيق

موقع الكتاب 24